Прыжки по числовой прямой

Подготовительная группа | 2026-11-21 | Задание

Взрослый может прочитать это вслух. Начни с большой точки. Каждая дуга — один скачок по прямой. Сосчитай скачки и запиши число, на котором заканчивается последний.

Скачки на один вперёд или назад на прямой до 20.

1

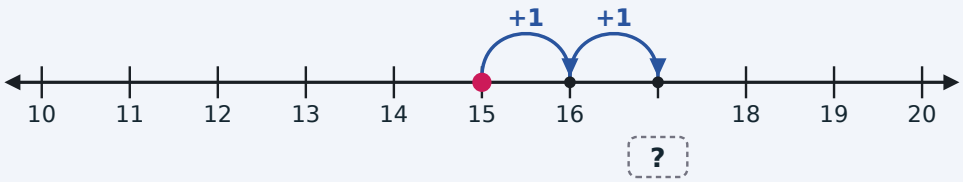

? =

2

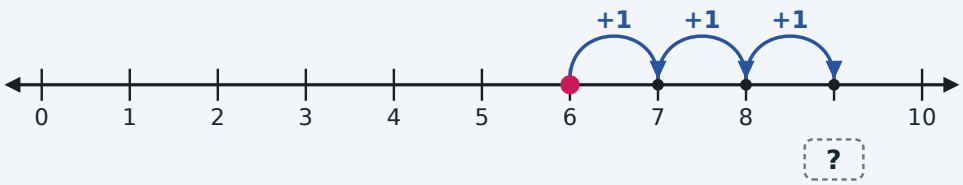

? =

3

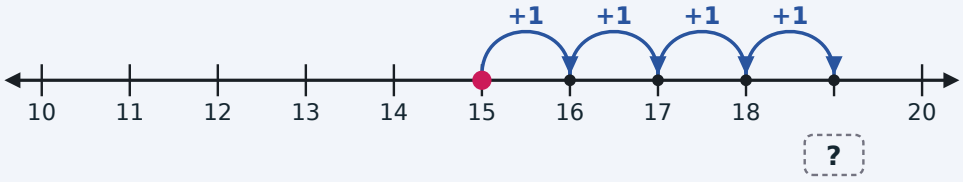

? =

4

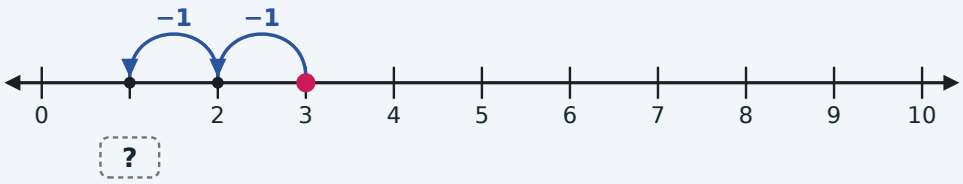

? =

Прыжки по числовой прямой

Подготовительная группа | 2026-11-21 | Ответы

Ответы: ответы записаны оранжевым в рамках.

1

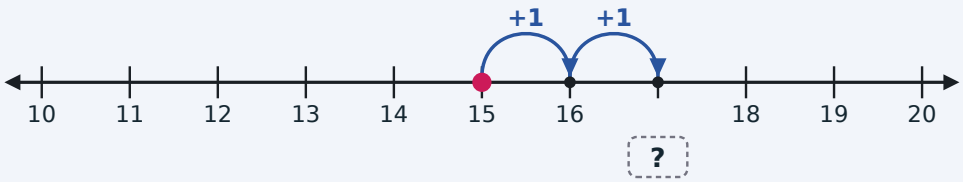

? = **17**

2

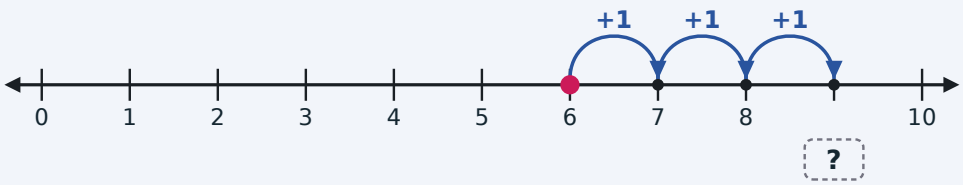

? = **9**

3

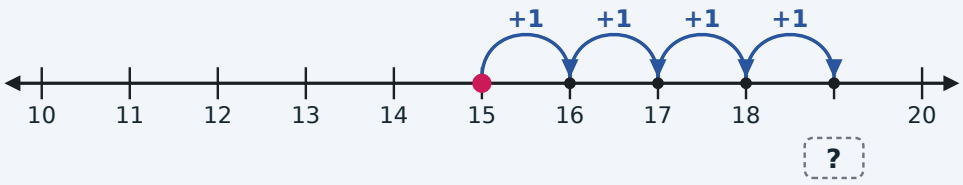

? = **19**

4

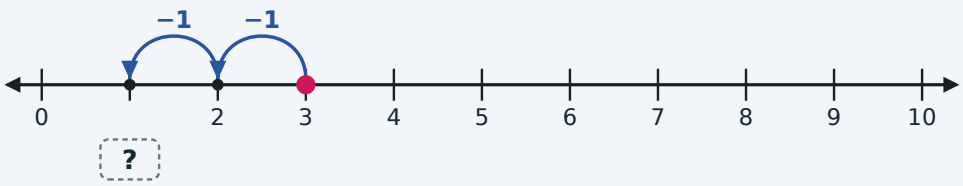

? = **1**

Прыжки по числовой прямой

1 класс | 2026-11-21 | Задание

Каждая прямая нарисована в масштабе. Дуги — это прыжки: прыжок + идёт вправо, прыжок − влево. Вычисли значение, которое скрывает ?, и запиши его в рамку.

Прыжки от 2 до 9 на прямой от 0 до 20. «+ ?» или «− ?» спрашивает длину прыжка.

1

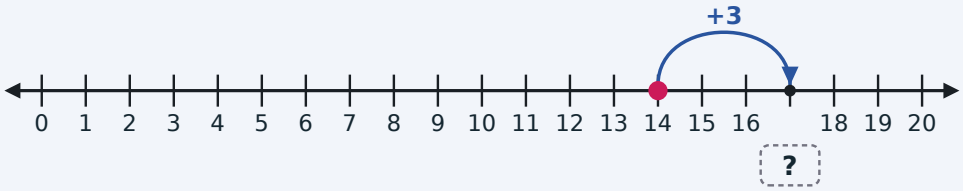

? =

2

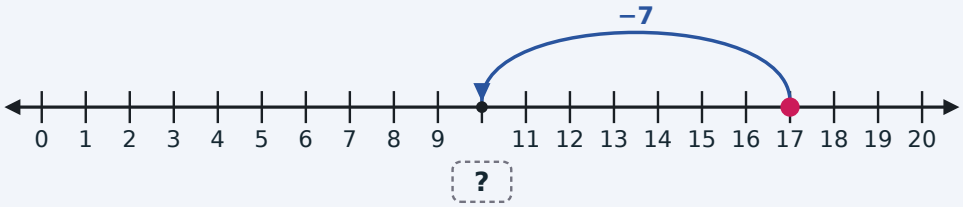

? =

3

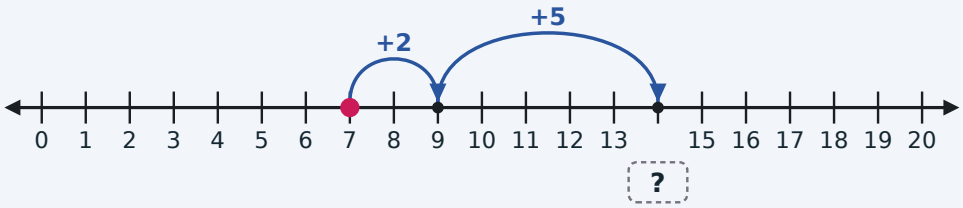

? =

4

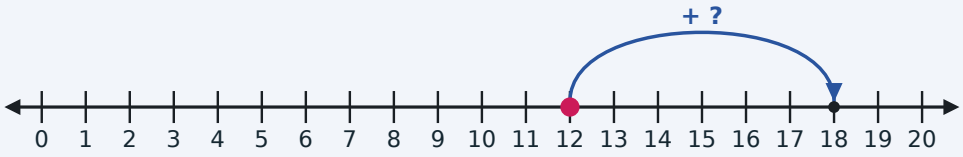

? =

5



? =

Прыжки по числовой прямой

1 класс | 2026-11-21 | Ответы

Ответы: ответы записаны оранжевым в рамках.

1

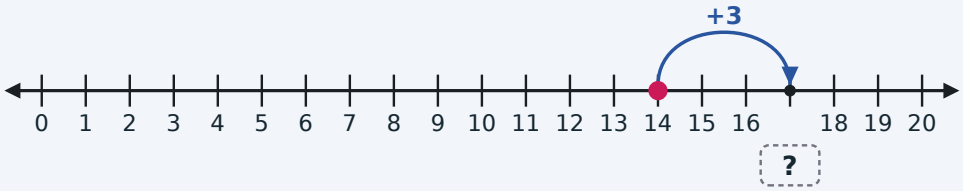

? = **17**

2

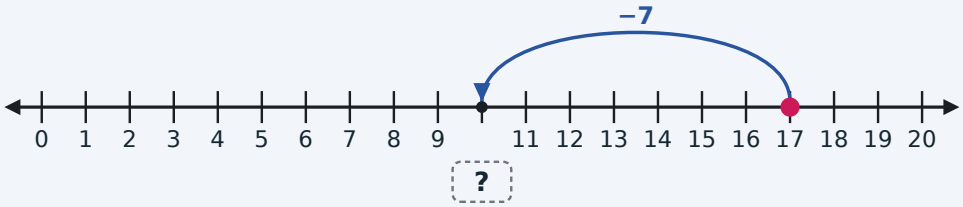

? = **10**

3

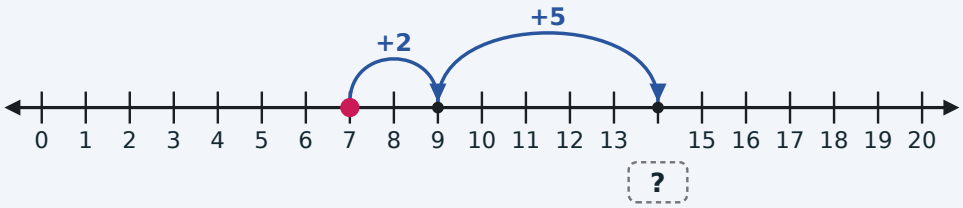

? = **14**

4



? = **6**

5



? = **7**

Прыжки по числовой прямой

2 класс | 2026-11-21 | Задание

Каждая прямая нарисована в масштабе. Дуги — это прыжки: прыжок + идёт вправо, прыжок − влево. Вычисли значение, которое скрывает ?, и запиши его в рамку.

Подписаны только десятки: сначала прыгай десятками, потом единицами.

1

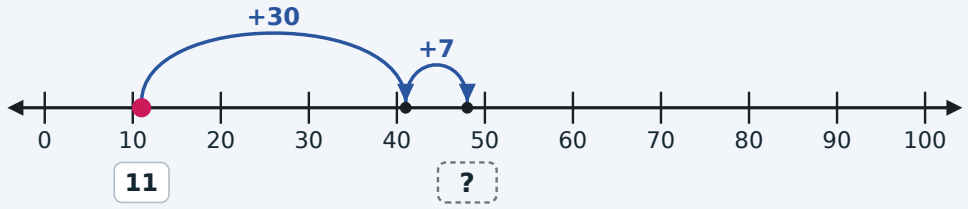

? =

2

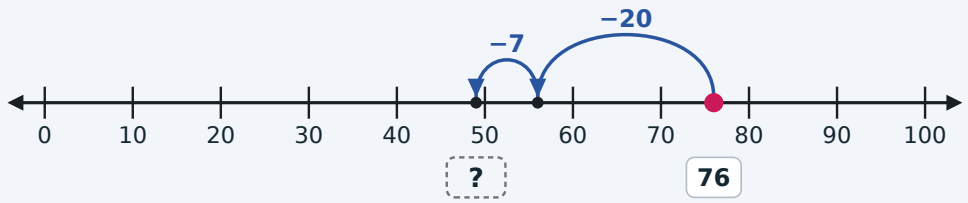

? =

3

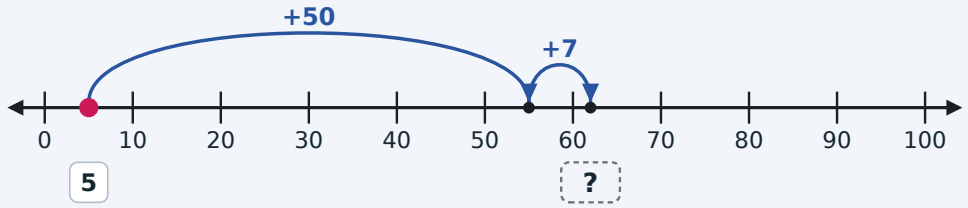

? =

4

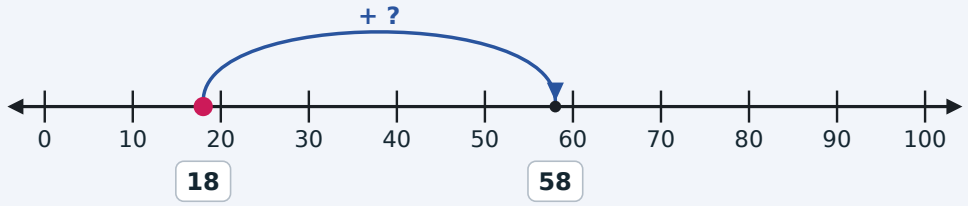

? =

5

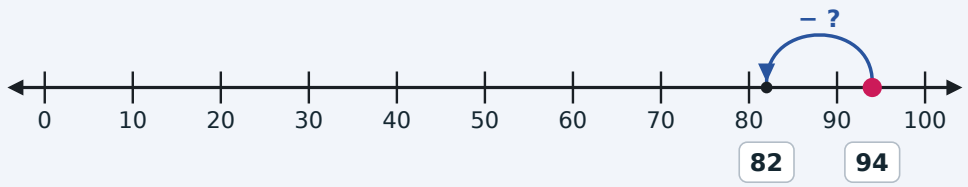

? =

Прыжки по числовой прямой

2 класс | 2026-11-21 | Ответы

Ответы: ответы записаны оранжевым в рамках.

1

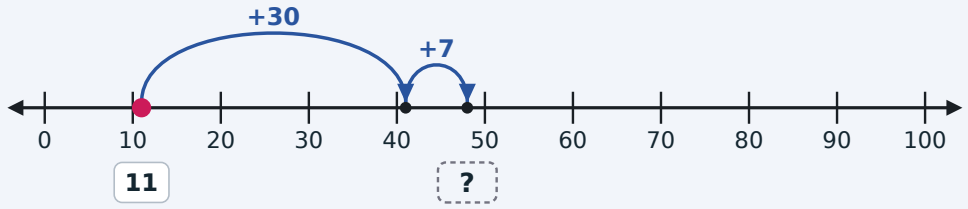

? = **48**

2

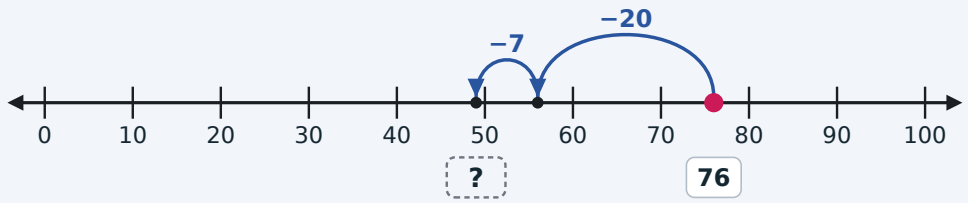

? = **49**

3

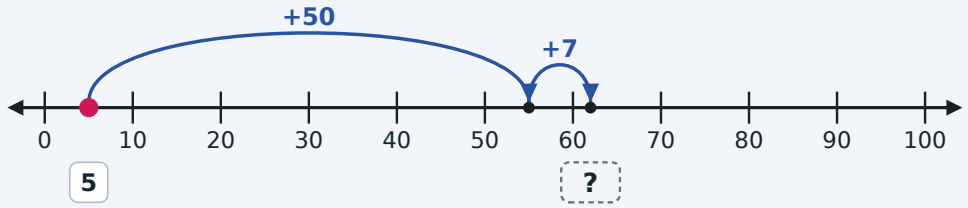

? = **62**

4

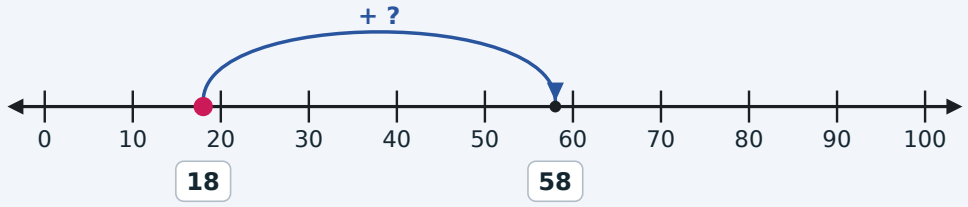

? = **40**

5

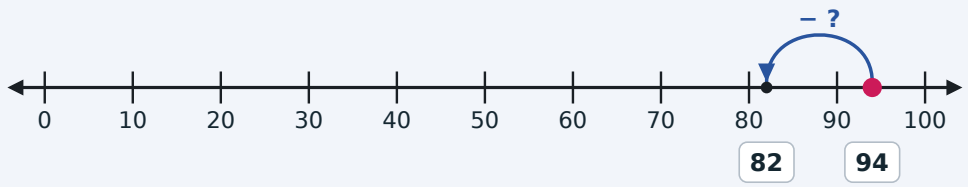

? = **12**

Прыжки по числовой прямой

3 класс | 2026-11-21 | Задание

Каждая прямая нарисована в масштабе. Дуги — это прыжки: прыжок + идёт вправо, прыжок − влево. Вычисли значение, которое скрывает ?, и запиши его в рамку.

Все прыжки одинаковые. Несколько равных прыжков дают произведение; если каждый прыжок — ?, раздели конец на равные прыжки.

1

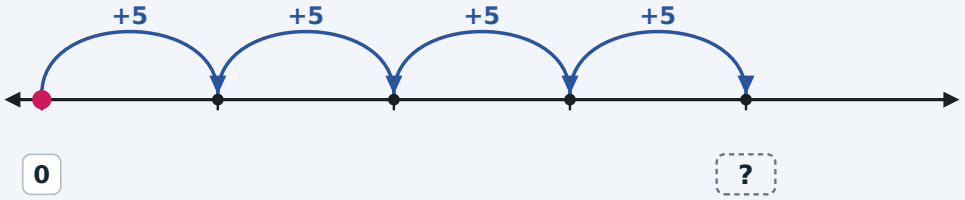

? = ☐

2

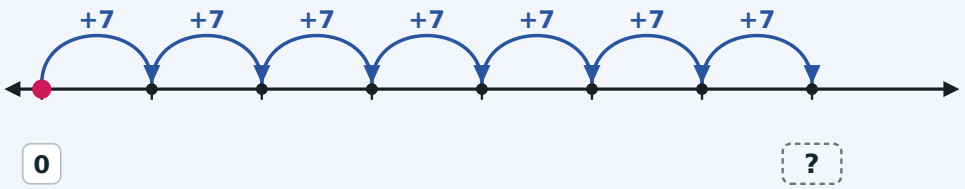

? = ☐

3

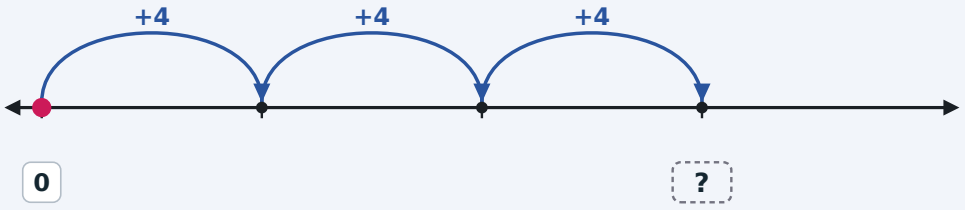

? = ☐

4

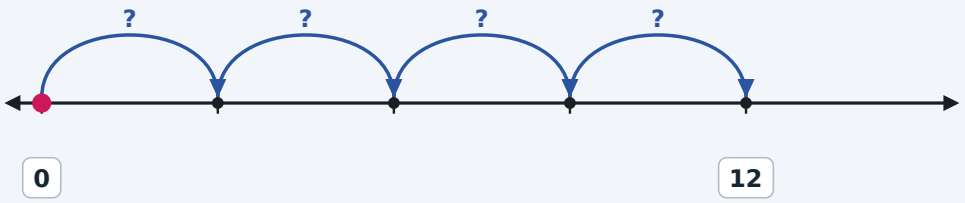

? = ☐

5

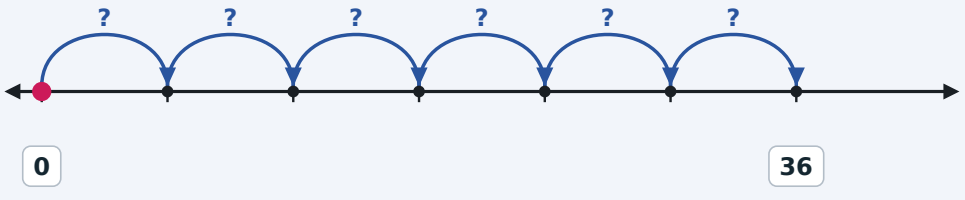

? = ☐

Прыжки по числовой прямой

3 класс | 2026-11-21 | Ответы

Ответы: ответы записаны оранжевым в рамках.

1

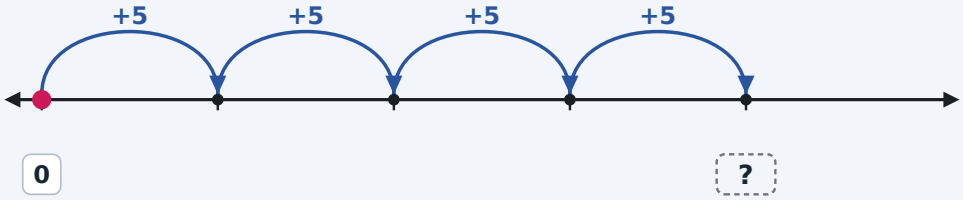

? = **20**

2

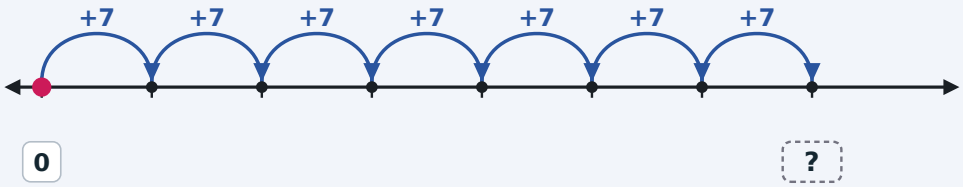

? = **49**

3

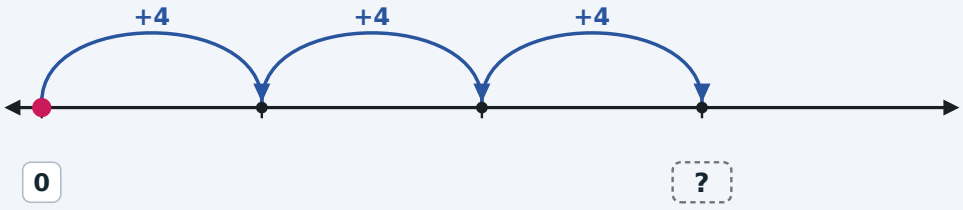

? = **12**

4

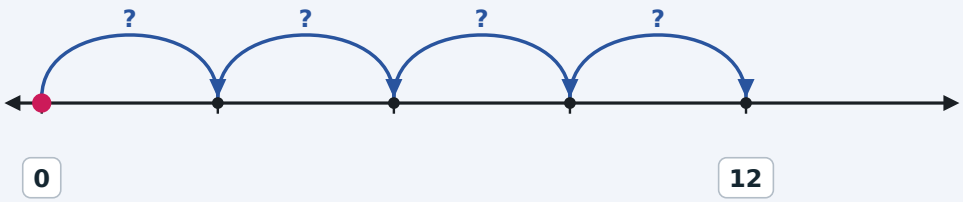

? = **3**

5

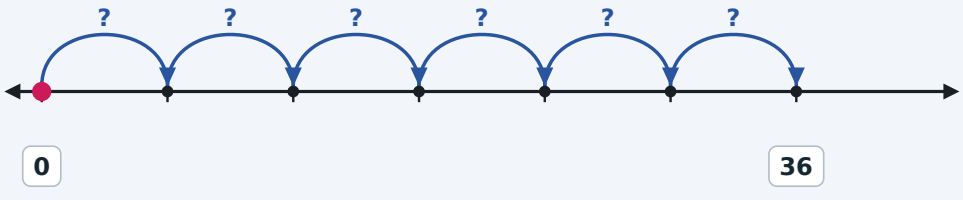

? = **6**

Прыжки по числовой прямой

4 класс | 2026-11-21 | Задание

Каждая прямая нарисована в масштабе. Дуги — это прыжки: прыжок + идёт вправо, прыжок − влево. Вычисли значение, которое скрывает ?, и запиши его в рамку.

Каждый маленький шаг — равная доля единицы. Запиши ответ дробью с тем же знаменателем.

1



? =

2

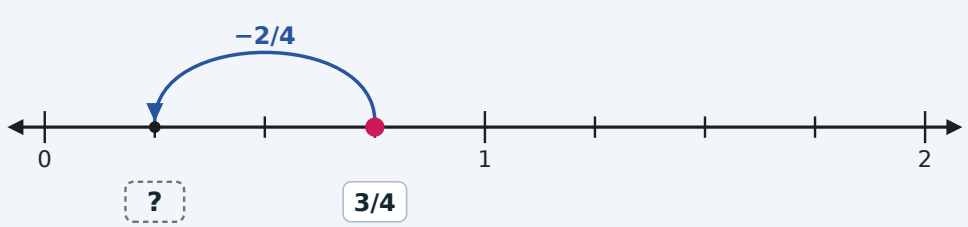

? =

3

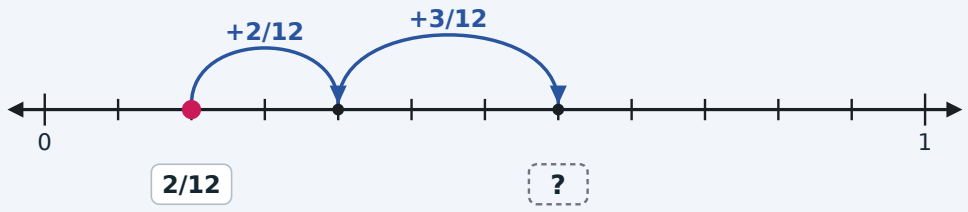

? =

4

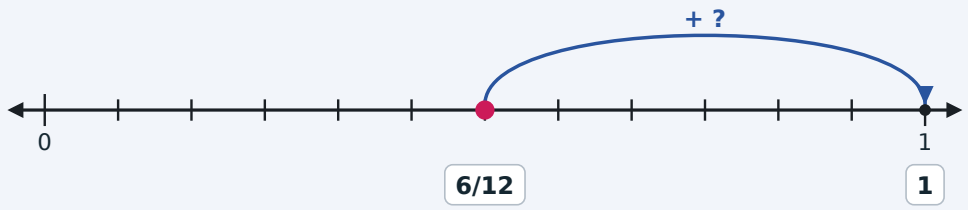

? =

5

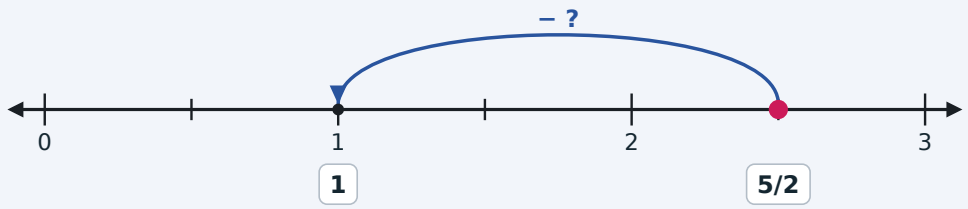

? =

Прыжки по числовой прямой

4 класс | 2026-11-21 | Ответы

Ответы: ответы записаны оранжевым в рамках.

1



? = **3/4**

2

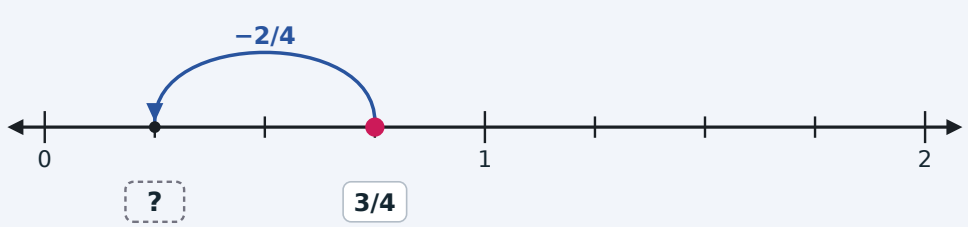

? = **1/4**

3

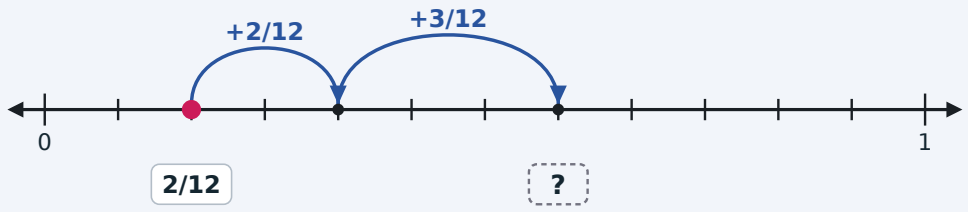

? = **7/12**

4

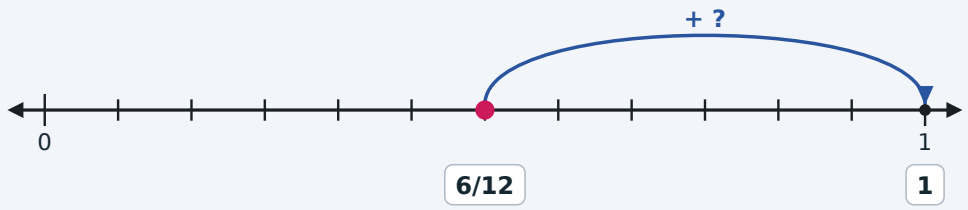

? = **6/12**

5

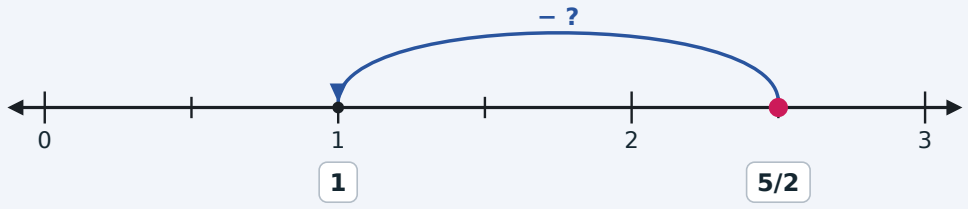

? = **3/2**

Прыжки по числовой прямой

5 класс | 2026-11-21 | Задание

Каждая прямая нарисована в масштабе. Дуги — это прыжки: прыжок + идёт вправо, прыжок − влево. Вычисли значение, которое скрывает ?, и запиши его в рамку.

Маленькие шаги — десятые или сотые. Сложи или вычти десятичные дроби и проверь по прямой.

1

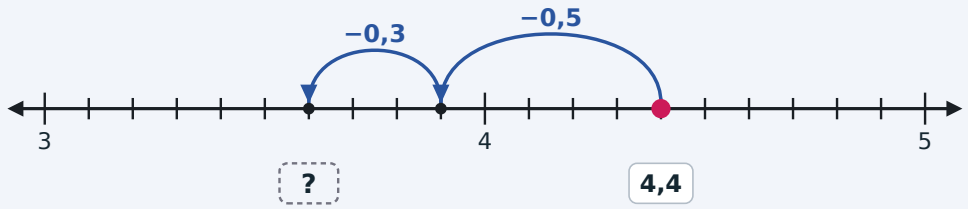

? =

2

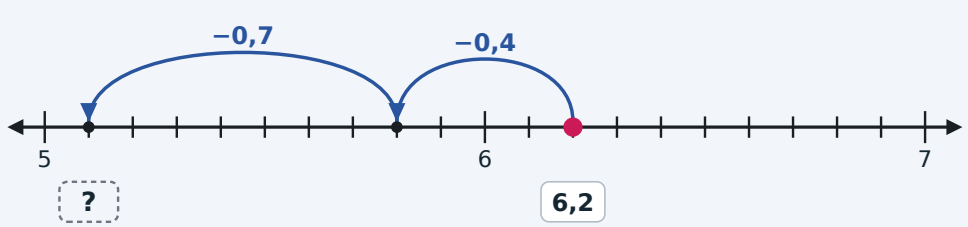

? =

3

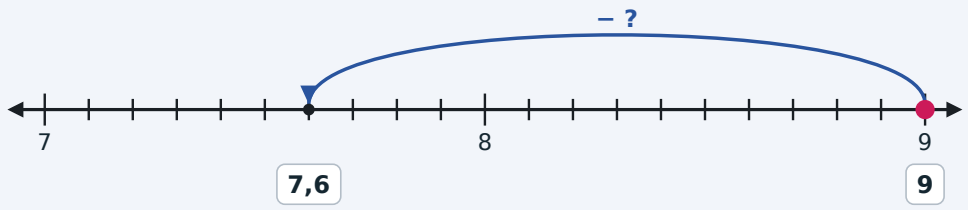

? =

4

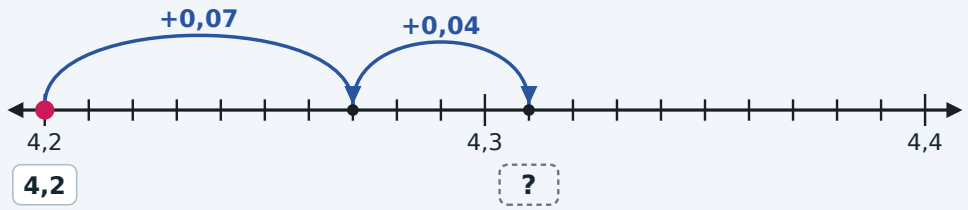

? =

5

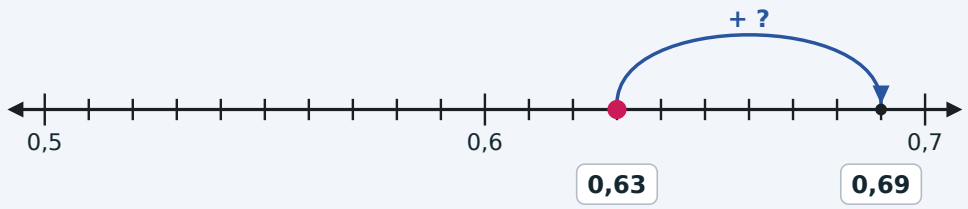

? =

Прыжки по числовой прямой

5 класс | 2026-11-21 | Ответы

Ответы: ответы записаны оранжевым в рамках.

1

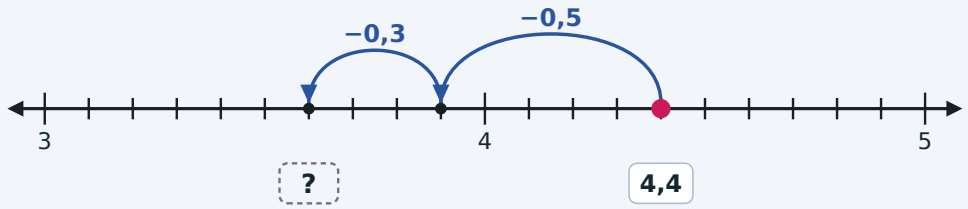

? = **3,6**

2

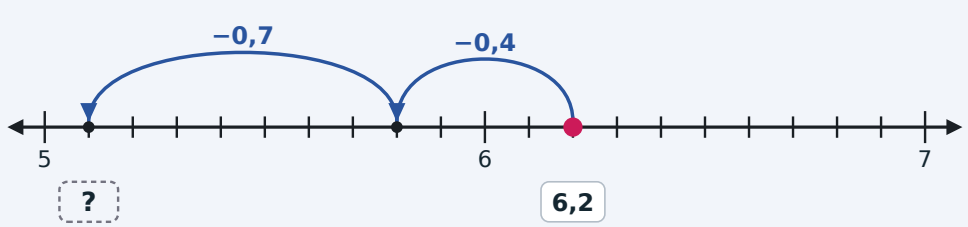

? = **5,1**

3

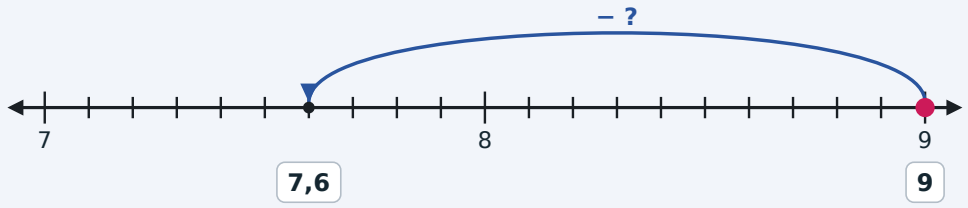

? = **1,4**

4

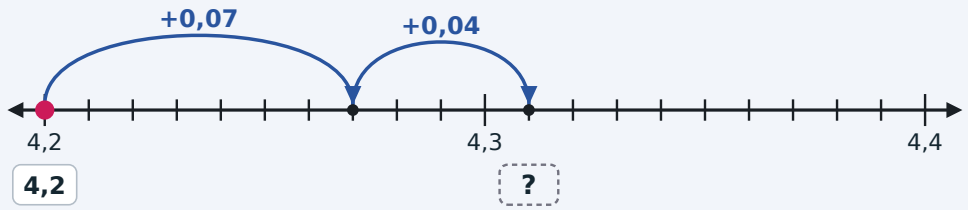

? = **4,31**

5

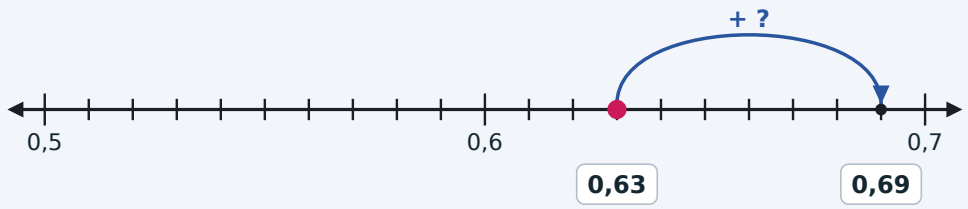

? = **0,06**

Прыжки по числовой прямой

6 класс | 2026-11-21 | Задание

Каждая прямая нарисована в масштабе. Дуги — это прыжки: прыжок + идёт вправо, прыжок − влево. Вычисли значение, которое скрывает ?, и запиши его в рамку.

Значения левее 0 отрицательные. Для прыжка, отмеченного только ?, нужны длина и знак, + или −.

1

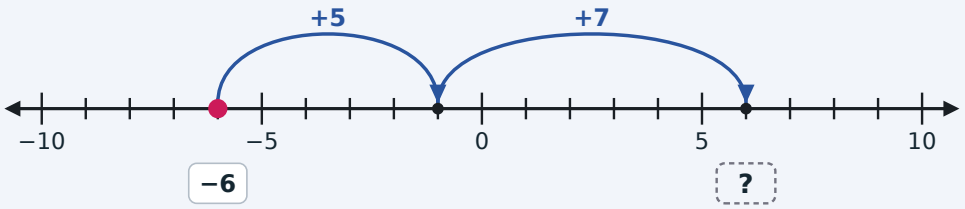

? =

2

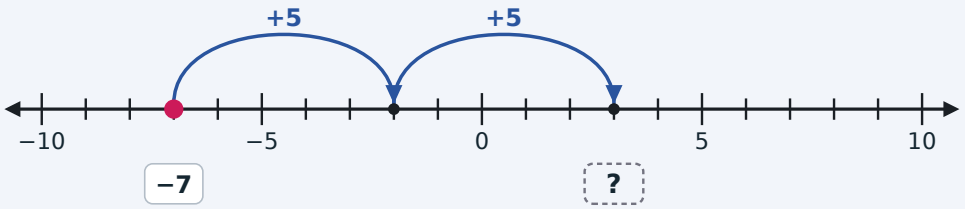

? =

3

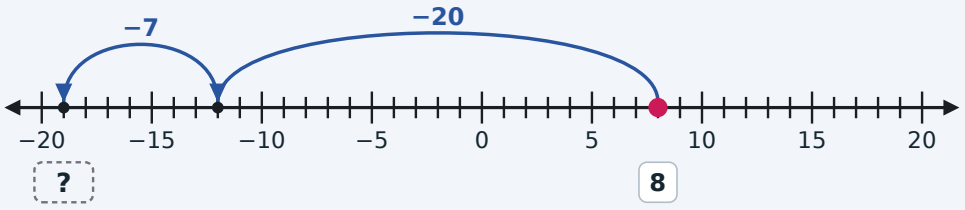

? =

4

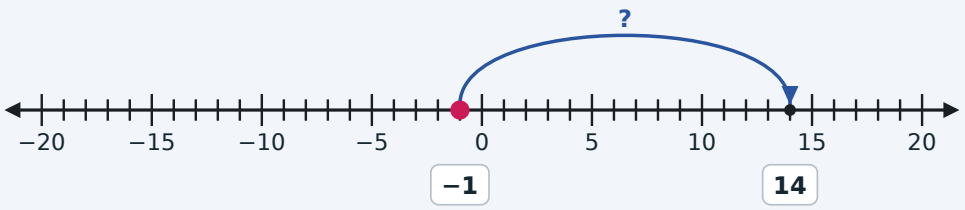

? =

5

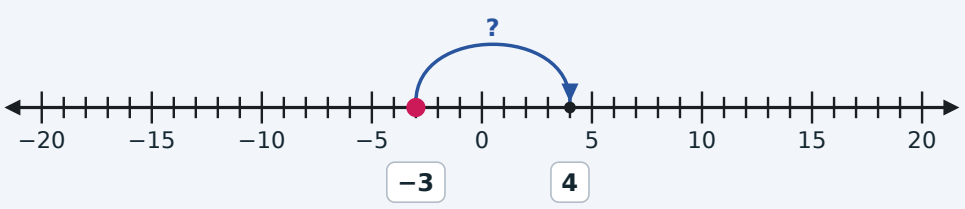

? =

Прыжки по числовой прямой

6 класс | 2026-11-21 | Ответы

Ответы: ответы записаны оранжевым в рамках.

1

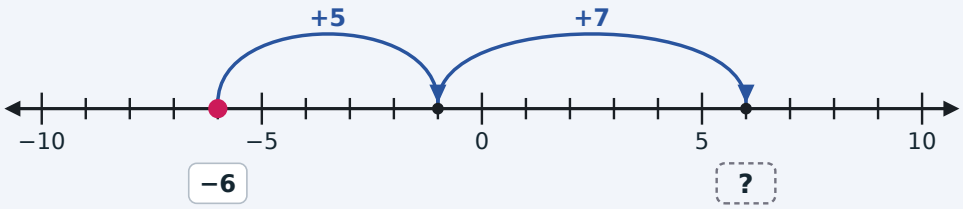

? = **6**

2

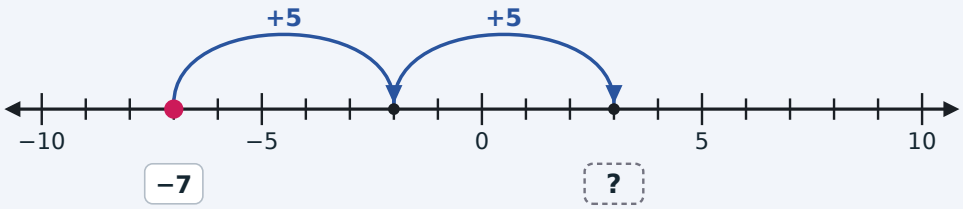

? = **3**

3

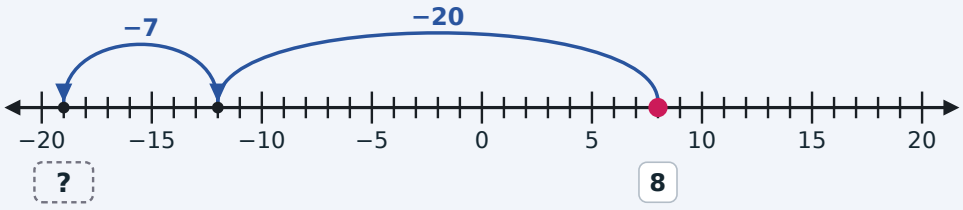

? = **−19**

4

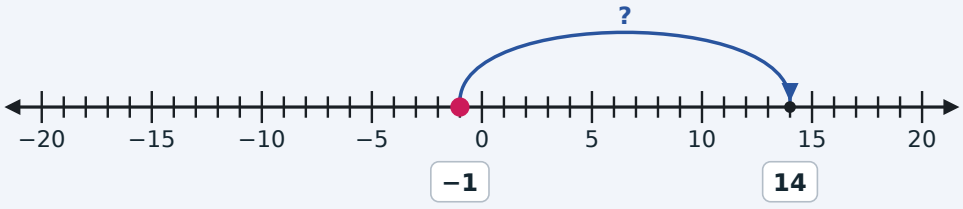

? = **+15**

5

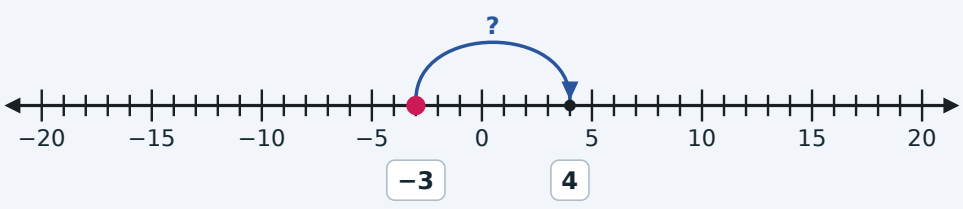

? = **+7**

Прыжки по числовой прямой

7 класс | 2026-11-21 | Задание

Каждая прямая нарисована в масштабе. Дуги — это прыжки: прыжок + идёт вправо, прыжок − влево. Вычисли значение, которое скрывает ?, и запиши его в рамку.

Маленькие шаги — четверти (0,25). Если начало — ?, иди назад от конца.

1

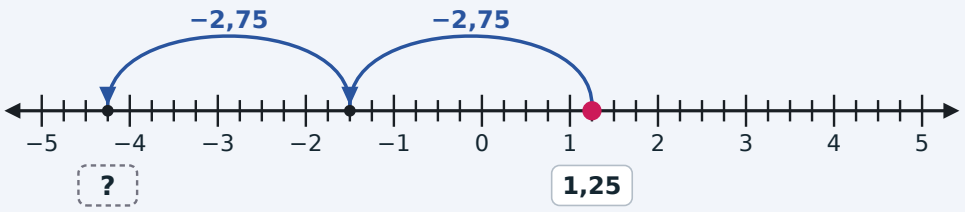

? =

2

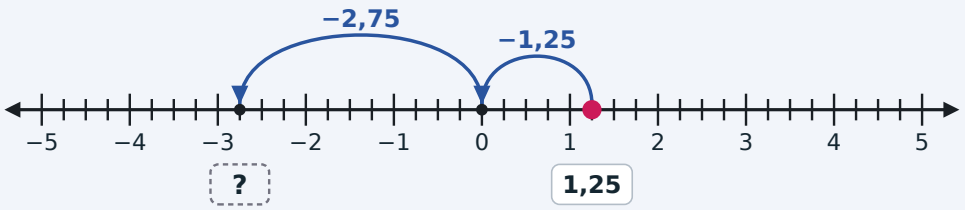

? =

3

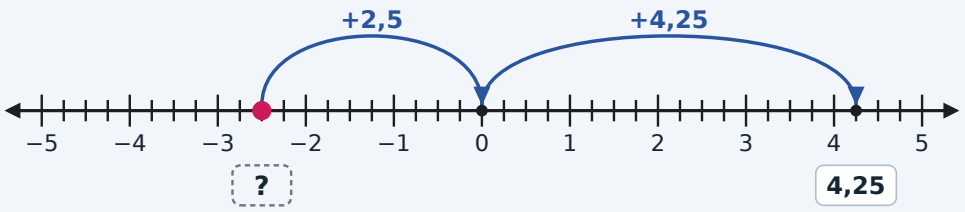

? =

4

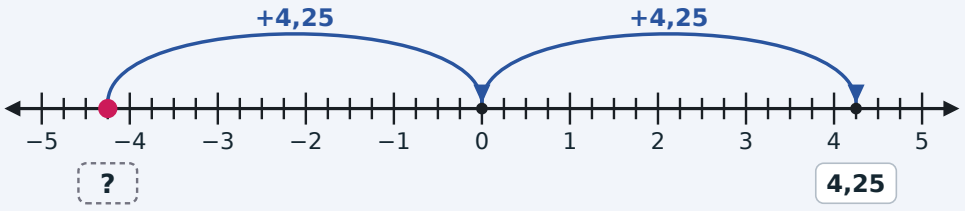

? =

5

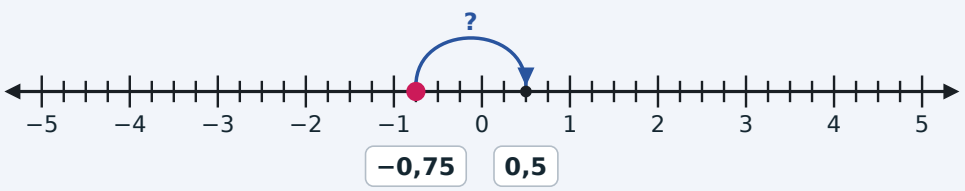

? =

Прыжки по числовой прямой

7 класс | 2026-11-21 | Ответы

Ответы: ответы записаны оранжевым в рамках.

1

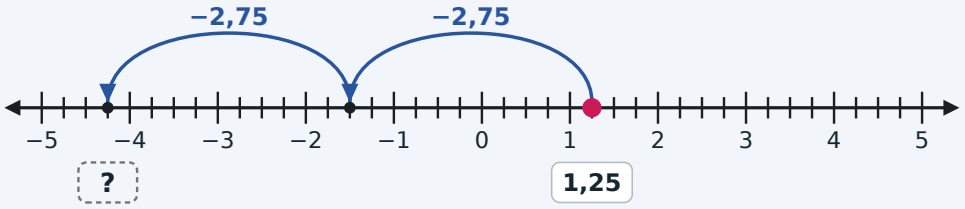

? = **−4,25**

2

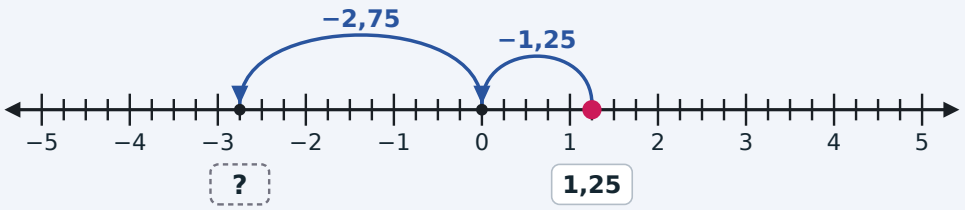

? = **−2,75**

3

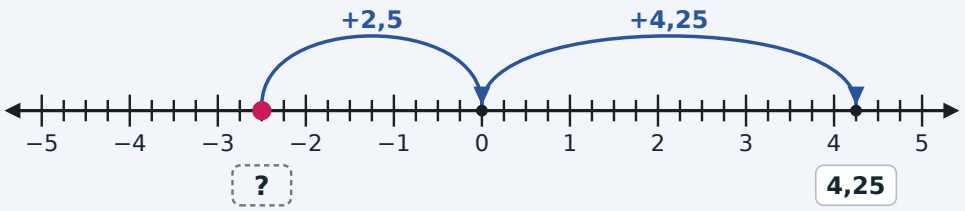

? = **−2,5**

4

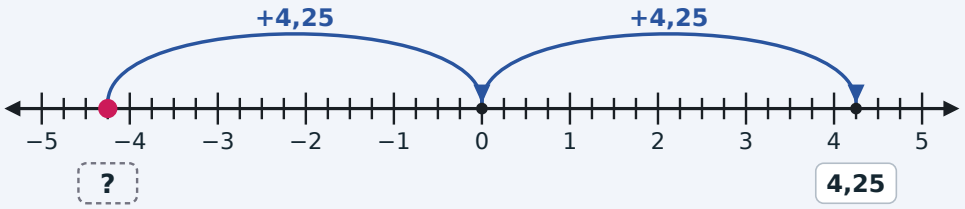

? = **−4,25**

5

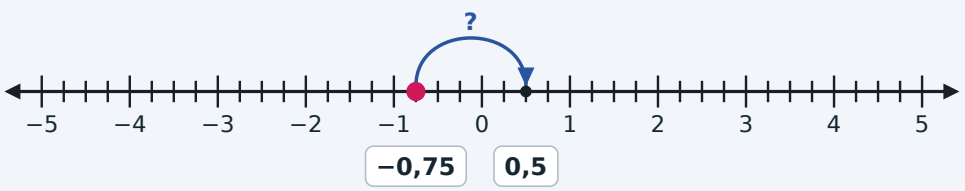

? = **+1,25**

Прыжки по числовой прямой

8 класс | 2026-11-21 | Задание

Каждая прямая нарисована в масштабе. Дуги — это прыжки: прыжок + идёт вправо, прыжок − влево. Вычисли значение, которое скрывает ?, и запиши его в рамку.

Все прыжки равны, но не подписаны. По двум данным значениям найди один прыжок, а затем значение ?.

1

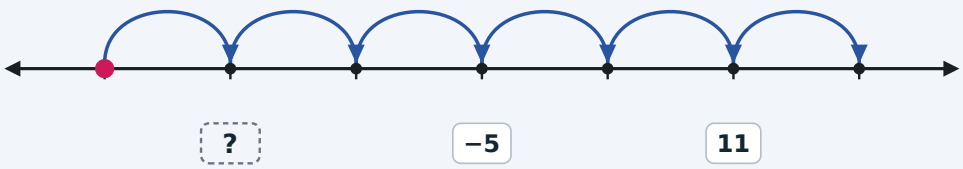

? =

2

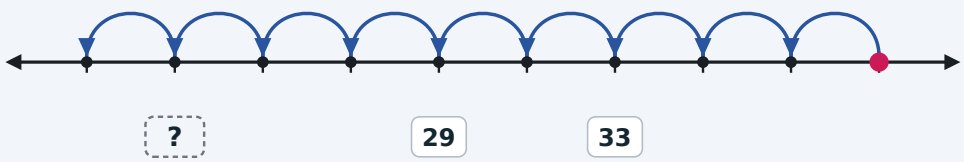

? =

3

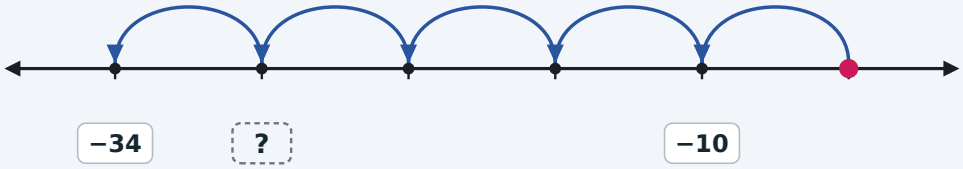

? =

4

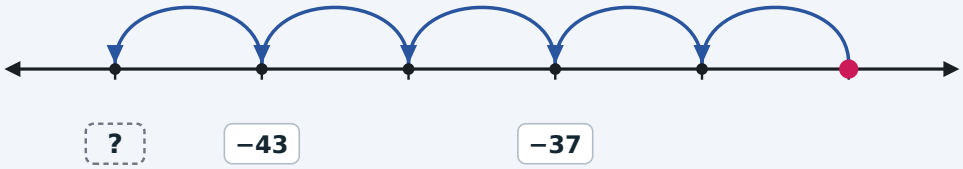

? =

5

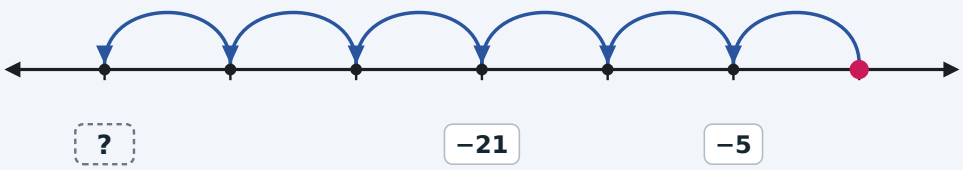

? =

Прыжки по числовой прямой

8 класс | 2026-11-21 | Ответы

Ответы: ответы записаны оранжевым в рамках.

1

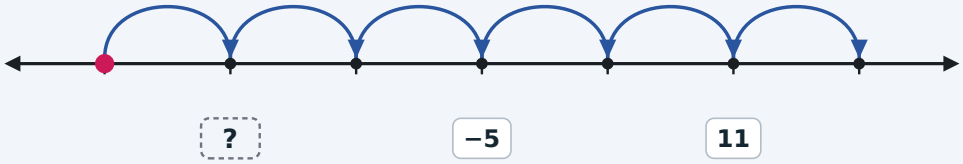

? = **−21**

2

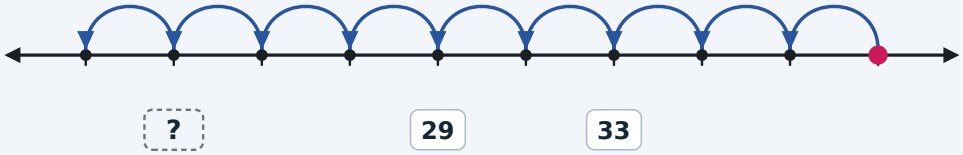

? = **23**

3

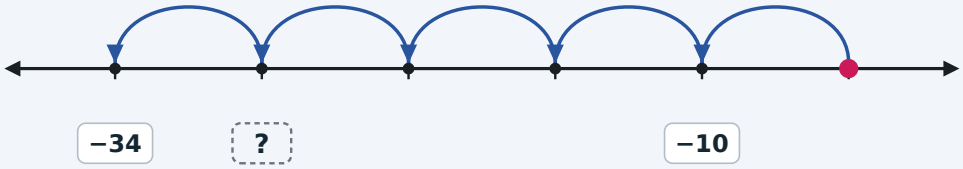

? = **−28**

4

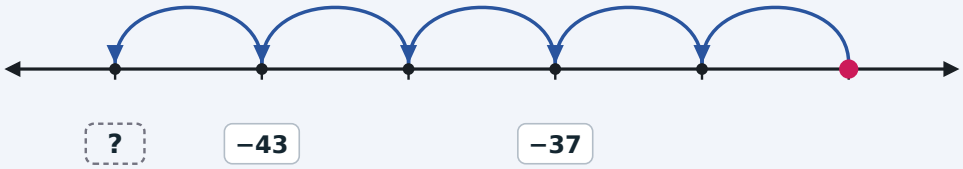

? = **−46**

5

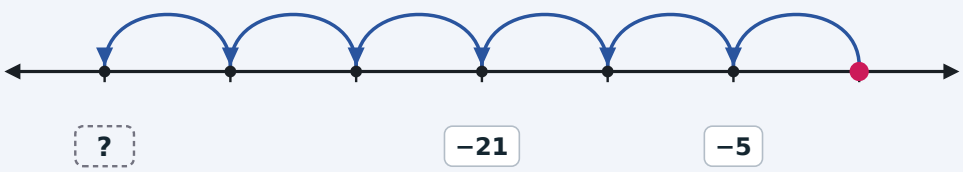

? = **−45**